الثانوية الإعدادية بنصفار

الأستاذ : جطيط المهدي

# فرض منزلي رقم 3

الثانية إعدادي

**أسئلة الفهم :**

أتمم ما يلي :

- O مركز الدائرة المحيطة بالمثلث إذن هي نقطة تلاقي .....
- I مركز الدائرة المحاطة بالمثلث إذن هي نقطة تلاقي .....
- H مركز تعامد المثلث إذن هي نقطة تلاقي .....
- G مركز ثقل المثلث إذن هي نقطة تلاقي .....
- خاصية طاليس المباشرة : ABC مثلث و M نقطة من $[AB]$ و N نقطة من $[AC]$

إذا كان .....

فإن .....

**تمرين 1 :**

1) حدد إشارة الأعداد التالية $\left(\frac{-3}{2}\right)^{278}$ و $\left(\frac{-2}{5}\right)^{5}$ و $(-2)^{3}$

2) أكتب على شكل قوة ما يلي

$\left(\frac{-5}{2}\right)^{-3}\times\left(\frac{-5}{2}\right)^{-2}\times\left(\frac{2}{-5}\right)^{-6}$ و $\left(\frac{1}{2}\right)^{13}\times 2^{13}\times(-8)^{-13}$ و $\left(\frac{-3}{2}\right)^{3}\times\left(\frac{2}{-3}\right)^{2}$ و $\frac{3^4}{3^{-2}}\times 3^3$

3) حدد الكتابة العلمية لما يلي

$0.000024\times10^{-3}$ و $1324\times10^{9}$

**تمرين 2 :**

ABC مثلث و M منتصف $[AC]$ و $(D)$ المستقيم الموازي للمستقيم $(BC)$ و المار من M يقطع $[AB]$ في N

1. أنشئ الشكل
2. بين أن N منتصف $[AB]$
3. قسم القطعة $[BC]$ إلى ثلاث قطع متقايسة

**تمرين 3 :** ABCD مربع مركزه O

1. ماذا تمثل O بالنسبة للمثلث OAB معللا جوابك
2. أنشئ $(D)$ واسط $[DC]$
3. ماذا تمثل O بالنسبة للمثلث ADC معللا جوابك

الثانوية الإعدادية بنصفار

الأستاذ : جطيط المهدي

# فرض منزلي رقم 3

الثانية إعدادي

**أسئلة الفهم :**

أتمم ما يلي :

- O مركز الدائرة المحيطة بالمثلث إذن هي نقطة تلاقي .....
- I مركز الدائرة المحاطة بالمثلث إذن هي نقطة تلاقي .....
- H مركز تعامد المثلث إذن هي نقطة تلاقي .....
- G مركز ثقل المثلث إذن هي نقطة تلاقي .....
- خاصية طاليس المباشرة : ABC مثلث و M نقطة من $[AB]$ و N نقطة من $[AC]$

إذا كان .....

فإن .....

**تمرين 1 :**

1) حدد إشارة الأعداد التالية $\left(\frac{-3}{2}\right)^{278}$ و $\left(\frac{-2}{5}\right)^{5}$ و $(-2)^{3}$

2) أكتب على شكل قوة ما يلي

$\left(\frac{-5}{2}\right)^{-3}\times\left(\frac{-5}{2}\right)^{-2}\times\left(\frac{2}{-5}\right)^{-6}$ و $\left(\frac{1}{2}\right)^{13}\times 2^{13}\times(-8)^{-13}$ و $\left(\frac{-3}{2}\right)^{3}\times\left(\frac{2}{-3}\right)^{2}$ و $\frac{3^4}{3^{-2}}\times 3^3$

3) حدد الكتابة العلمية لما يلي

$0.000024\times10^{-3}$ و $1324\times10^{9}$

**تمرين 2 :**

ABC مثلث و M منتصف $[AC]$ و $(D)$ المستقيم الموازي للمستقيم $(BC)$ و المار من M يقطع $[AB]$ في N

1. أنشئ الشكل
2. بين أن N منتصف $[AB]$
3. قسم القطعة $[BC]$ إلى ثلاث قطع متقايسة

**تمرين 3 :** ABCD مربع مركزه O

1. ماذا تمثل O بالنسبة للمثلث OAB معللا جوابك
2. أنشئ $(D)$ واسط $[DC]$
3. ماذا تمثل O بالنسبة للمثلث ADC معللا جوابك

| | | |
|---|---|---|
| ثانوية عمر بن الخطاب الإعدادية<br>بركان | **فرض محروس رقم 3**<br>الأسدس الأولى | المستوى الثاني<br>الأستاذ زكرياء امسلك |
| الثانية: ..... رقم الترتيب:..... | الاسم:..... | الموسم: 2017 -2018 |

ZAKAMATH

/20

| ن | |
|---|---|
| 4 | 1) **حدد إشارة كل قوة ممايلي :** علل جوابك<br>$(-30)^{22}$<br>$(-2)^{17}$ |
| | ***2) احسب ما يلي:***<br>$2^3$ ; $10^{-5}$ ; $0^0=$ ; $21589436^0=$ |
| 1.5 | ***3) احسب العدد التالي:***<br>$\left[\frac{3}{5}\right]^{-2}$ |
| 3 | ***4)- اكتب على شكل قوة:***<br>$10000000000 =$ ……<br>$10^4 \times 10 \times 10^{13} =$……<br>$\left(\frac{3}{5}\right)^8 \times \left(\frac{3}{5}\right)^4$<br>…… |
| 4.5 | **5)- اكتب على شكل قوة:**<br>$\left(\frac{5}{3}\right)^{-5} \times \left(\frac{3}{5}\right)^{11}$<br>……<br>……<br>……<br>$\left[\left(\frac{-1}{2}\right)^4\right]^2$<br>……<br>……<br>……<br>$\left(\frac{-2}{5}\right)^8 \times \left(\frac{5}{3}\right)^8$<br>……<br>……<br>…… |
| 4 | ***6) – أتمم كل جملة من الجملة التالية:***<br>1)- مركز تعامد مثلث هو نقطة تلاقي .....<br>2)- مركز ثقل مثلث هو نقطة تلاقي .....<br>3)- مركز الدائرة المحيطة بمثلث هو نقطة تلاقي .....<br>4)- مركز الدائرة المحاطة بمثلث هو نقطة تلاقي ..... |
| 1<br>1<br>1 | ***7)-***<br>A و B نقطتان و(D) مستقيم ( انظر الشكل جانبه)<br>1)- ارسم C مماثلة B بالنسبة للمستقيم (D)<br>2)- ارسم (L) واسط القطعة [AB]<br>(L) بقطع (D) في النقطة E<br>بين أن النقطة E هي مركز الدائرة المحيطة بالمثلث ABC |

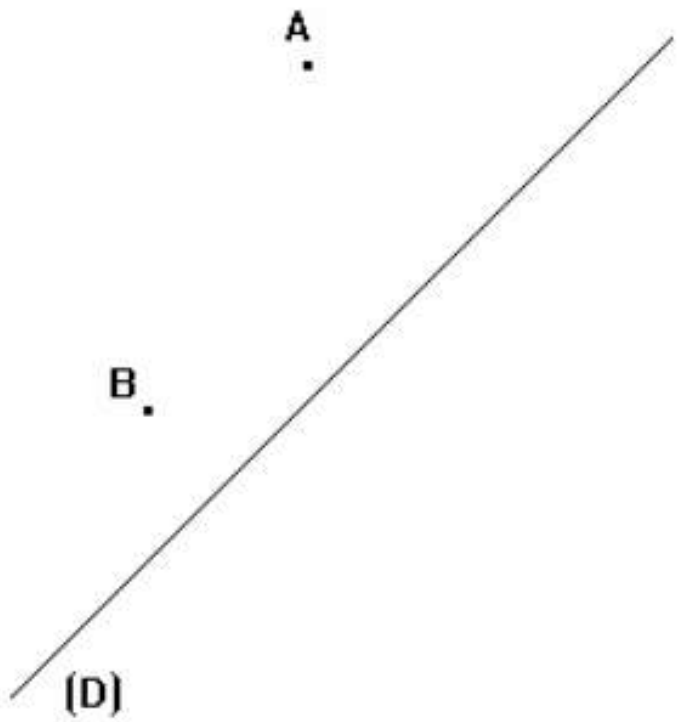

| | | |
|---|---|---|
| ثانوية القدس التاهيلية<br>مادة: الرياضيات<br>المستوى : السنة الثانية ثانوي إعدادي | **فرض محروس 3 – الدورة I** | السنة الدراسية : 2015 - 2016<br>الأستاذ : بدر الحاجي<br>المدة : ساعة واحدة |

| | س.ت |
|---|---|
| **تمرين 1( 5ن)** | |
| 1- أوجد الكتابة العلمية للعدد : $31\,500\,000$ | 1ن |
| 2- حدد إشارة مايلي معللا جوابك : $(-4)^{2016}$ و $\left(-\frac{11}{27}\right)^{211}$. | 1ن |
| 3- أحسب ما يلي: $\left(10^{-2}\right)^{-3}$ ;; $1000\times10^{-3}$ ;; $\frac{10^7}{10}\times\frac{1}{10^5}$ ;; $\frac{10^4}{10^{-6}}$ | 2ن |
| 4- احسب ما يلي: $3{,}5\times(10^{-4})^{-3}+6{,}5\times10^{12}$ | 1ن |
| **تمرين 2 (7,5ن)** | |
| 1- أحسب ما يلي: $\left(\frac{3}{2}\right)^3$ ;; $\left(\frac{-7}{198}\right)^0$ ;; $\frac{3^2}{5}$ ;; $5^{-2}$ ;; $1^{2012}$ | 2,5ن |
| 2- اكتب ما يلي على شكل قوة : $\frac{\left(\frac{2}{5}\right)^{13}}{\left(\frac{7}{3}\right)^{13}}$ ;; $\left[\left(-\frac{11}{9}\right)^3\right]^4$ ;; $\frac{5^7}{5^{-4}}$ ;; $\frac{7^{12}\times7^{11}}{7^9\times7^5}$ | 4ن |
| 3- أكتب ما يلي على شكـل قوة : $A=\frac{\left(\frac{5}{2}\right)^5\times\left(-\frac{4}{7}\right)^{-6}}{\left(-\frac{4}{7}\right)^6\times\left(\frac{5}{2}\right)^{-7}}$ | 1ن |
| **تمرين3 ( 7,5ن)** | |
| 1) أنشئ مثلثا $ABC$ ثم $H$ مركز تعامده.<br>أتمم: $H$ هي نقطة تلاقي .....<br>2) أنشئ مثلثا $ABC$ ثم $O$ مركز الدائرة المحيطة به.<br>أتمم: $O$ هي نقطة تلاقي .....<br>3) أنشئ مثلثا $ABC$ ثم $G$ مركز ثقله<br>حيث $A'$ ، $B'$ و $C'$ هي على التوالي منتصفات $[BC]$ ، $[AC]$ و$[AB]$.<br>أتمم: $G$ هي نقطة تلاقي .....<br>$AG=\frac{\cdots}{\cdots}AA'$ ، $BG=\frac{\cdots}{\cdots}BB'$ ، $CG=\frac{\cdots}{\cdots}CC'$ | 2ن<br>2ن<br>3,5ن |

ثانوية معركة البطحاء الإعدادية
مادة: الرياضيات
المستوى : السنة الثانية من التعليم الثانوي الإعدادي

السنة الدراسية : 2011 - 2012
الأستاذ : محسن الجنان
المدة : ساعة واحدة

# فرض محروس 3 – الدورة I

س. ت

## تمرين 1

**6,5 ن**

1- فكك العدد التالي في نظمة العد العشري: 437205 — 1 ن

2- أكتب العدد 0,000014 على شكل $a\times10^{n}$ بحيث $a$ و n عددان صحيحان نسبيان. — 1 ن

3- أوجد الكتابة العلمية للعدد : 31 500 000 000 — 1 ن

4- حدد إشارة $(-4)^{2012}$ معللا جوابك. — 0,5 ن

5- أحسب ما يلي: $\left(10^{-2}\right)^{-3}$ ;; $1000\times10^{-3}$ ;; $\frac{10^{7}}{10}\times\frac{1}{10^{5}}$ ;; $\frac{10^{4}}{10^{-6}}$ — 2 ن

6- احسب ما يلي: $3,5\times(10^{-4})^{-3}+6,5\times10^{12}$ — 1 ن

## تمرين 2

**7,5 ن**

1- أحسب ما يلي: $\left(\frac{3}{2}\right)^{3}$ ;; $\left(\frac{-7}{198}\right)^{0}$ ;; $\frac{3^{2}}{5}$ ;; $5^{-2}$ ;; $\left(\frac{6691}{-225}\right)^{1}$ ;; $1^{2012}$ ;; $\left(\frac{3}{7}\right)^{-2}$ — 3,5 ن

2- اكتب ما يلي على شكل قوة : $\frac{\left(\frac{2}{5}\right)^{13}}{\left(\frac{7}{3}\right)^{13}}$ ;; $\left[\left(-\frac{11}{9}\right)^{3}\right]^{4}$ ;; $\frac{5^{7}}{5^{-4}}$ ;; $\frac{7^{12}\times7^{11}}{7^{9}\times7^{5}}$ — 3 ن

$(-6)^{7}\times(-2)^{7}\times0,5^{7}$ ;; $(-5)^{-12}\times(-5)^{3}\times\frac{1}{-5}$

3- أكتب ما يلي على شكـل قوة : $A=\frac{\left(\frac{5}{2}\right)^{5}\times\left(-\frac{4}{7}\right)^{-6}}{\left(-\frac{4}{7}\right)^{6}\times\left(\frac{5}{2}\right)^{-7}}$ — 1 ن

## تمرين 3

**1,5 ن**

ABC مثلث .
لتكن E مماثلة A بالنسبة للنقطة B و F مماثلة A بالنسبة للنقطة C .
أثبت أن المستقيم (BC) يوازي المستقيم (EF) . — 1,5 ن

## تمرين 4

**3 ن**

EFG مثلث بحيث EG = 6 cm .

I منتصف [EF]، و الموازي للمستقيم (FG) المار من I يقطع [EG] فى J.

1) بين أن J منتصف [EG]. 1,5 ن

2) أحسب IJ 1,5 ن

## تمرين 5

**1,5 ن**

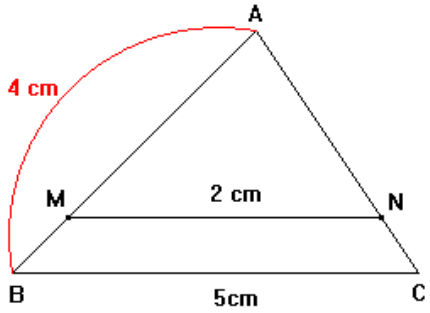


لاحظ الشكل جانبه بحيث : (MN) // (BC) .

AB = 4 cm و BC = 5 cm و MN = 2 cm . 1,5 ن

أحسب AM .

الثانوية الإعدادية الوحدة

# الرياضيات

## فرض كتابي 3 الدورة 1

المستوى : الثانية 3

اعداد : اسطيط عبدالرحيم

2014-2013

**التمرين1**

1- بسط ما يلي :

a و b عددان جذريان غير منعدمين

3ن

$$A = a \times b^{-2} \times \left(a^3 \times b^2\right)^4 \times a \times b^{-1} \quad \text{و} \quad B = \frac{a \times b^{-4} \times (a^2 \times b^{-1})^3}{a^{-5} \times (a \times b^{-1})^2}$$

2- حدد الكتابة العلمية للأعداد الآتية :

3ن

$$X = 98564326 \quad ; \quad Y = \frac{3,2 \times 10^{-1} \times 5 \times 10^5}{4 \times 10^{-2}}$$

3- احسب ما يلي :

3ن

$$B = \frac{2}{8} + \frac{1}{3} - \frac{5}{4} \div \frac{6}{7} \qquad A = \frac{2}{6} + \frac{1}{3} \times \frac{5}{2} - \frac{8}{3}$$

**التمرين 2**

$EFG$ مثلث بحيث : $E\hat{F}G = 6O^\circ$ و $E\hat{G}F = 80^\circ$ و $FG = 5\ cm$

1 - احسب $F\hat{E}G$ 1ن

2 - أنشئ I مركز الدائرة المحاطة بالمثلث EFG 1,5ن

3 - احسب $E\hat{I}F$ 2ن

4- أنشئ G مركز ثقل المثلث MNP 1,5ن

**التمرين 3**

حدد مركز الدائرة 2ن

ملاحظة :

| التنظيم | الفرض المنزلي والتمارين المنزلية | المشاركة والسلوك |
|---|---|---|
| 0,5ن | 1,5ن | 1ن |

**الله ولي التوفيق**

الاسم والنسب : .....
الرقم : ....
القسم: 2/1 .

# فرض محروس رقم 3
## الدورة الاولى

الثانوية الاعدادية سيدي المخفي
ذ. رضوان العثماني

## النشاط الاول:

1) أحسب ما يلي : .4ن

| | |
|---|---|
| $(-1)^{2016} =$ ... ... ... ... ... ... ... ... ... .. | $(3)^3 =$ ... ... ... ... ... ... ... ... ... ... ... .... |
| $\left(\frac{3}{4}\right)^{-3} =$ ... ... ... ... ... ... ... . ... ... ... . <br> $=$ ... ... ... ... ... ... ... ... ... . .... | $\left(\frac{-7}{2}\right)^2 =$ ... ... ... ... ... ... ... ... ... ... ... ... <br> $=$ ... ... ... ... ... ... ... ... ... ... ... .. |

2) .4ن

أ) أكتب على شكل قوة عدد جذري:

$4^3 \times \left(\frac{5}{4}\right)^3 =$ ... ... ... ... ... ... . . ... . = ... ... ... . . ...

$[(-3,5)^2]^3 =$ ... ... ... ... ... ... ... . = ... ... ... ..

ب) أكتب على شكل قوة عدد 10:

$10^2 \times 10^{-3} \times 10^5 =$ ... ... ... ... ... ... . . = ... ... . ...

$\frac{10^8}{10^5} \times 0,001 =$ ... ... ... ... ... ... . . = ... ... . ...

3) أعط الكتابة العلمية للأعداد: .3ن

- $y = 0,0016$ = ... ... ... ... ... ... ... ... ... ... ... ... ... ... ... ... ... ... ... ... ... ... ... ... ... ...
- $z = 2300000$ = ... ... ... ... ... ... ... ... ... ... ... ... ... ... ... ... ... ... ... ... ... ... ... ... ... ...
- $w = 350 \times 10^{-3} \times 10^5 =$ ... ... ... ... ... ... ... ... ... ... ... ... ... ... ... ... ... ... ... ... ... ... ... ... ... ...

## النشاط الثاني:

إليك الأشكال الآتية؛ ماذا يمثل المستقيم (Δ) بالنسبة لكل شكل ؟ علل جوابك. .3ن

| | | |
|---|---|---|
| 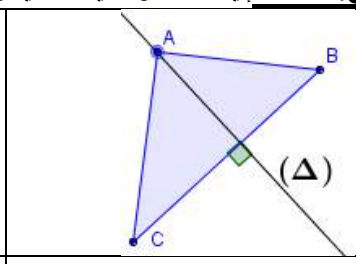  | 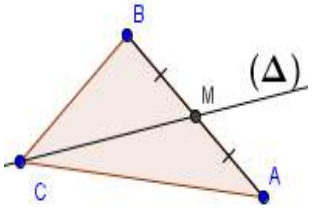  | 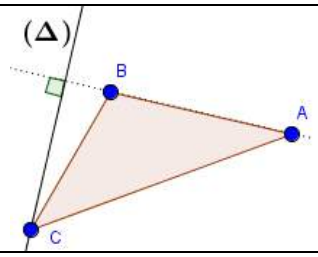  |
| ..... <br> ..... <br> ..... <br> ..... | ..... <br> ..... <br> ..... <br> ..... | ..... <br> ..... <br> ..... <br> ..... |

## النشاط الثالث:

$ABCD$ متوازي الأضلاع مركزه $I$ .
المستقيم العمودي على$(AC)$ و المار من $B$ و المستقيم العمودي على $(BD)$ و المار من $A$ يتقاطعان في $M$ .

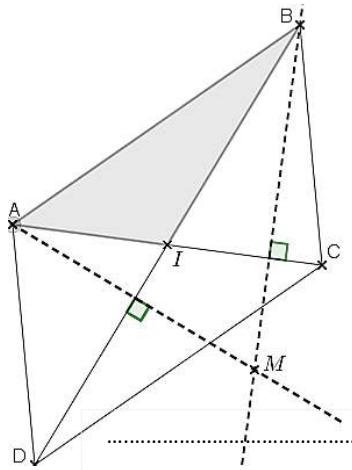


1) أتمم الخاصية التالية: .1ن

ارتفاعات مثلث تتلاقى في نقطة وحيدة تسمى ..... هذا المثلث.

2) ماذا تمثل النقطة M بالنسبة للمثلث $AIB$؟ علل جوابك. .2ن

.....
.....
.....

3) بين أن : (AB) عمودي على(MI) .2ن

.....
.....
.....
.....
.....
.....
.....
.....
.....

بالتوفيق.